Nom :
Prénom :
Classe : 5ème A

Devoir maison n°8

A rendre le ….

Calculer la mesure de l'angle x dans chaque cas. Une rédaction précise et détaillée est demandée (calcul, propriété utilisée, noms des différents angles…).

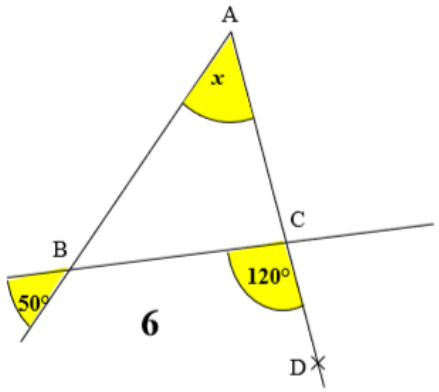

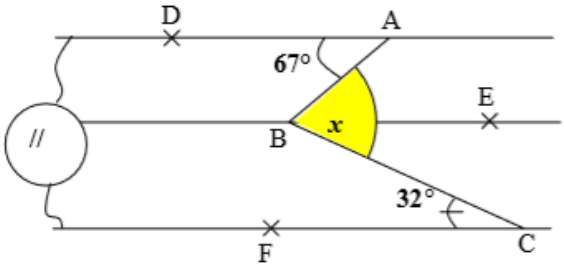

Plus costaud celui là, il faut être astucieux!

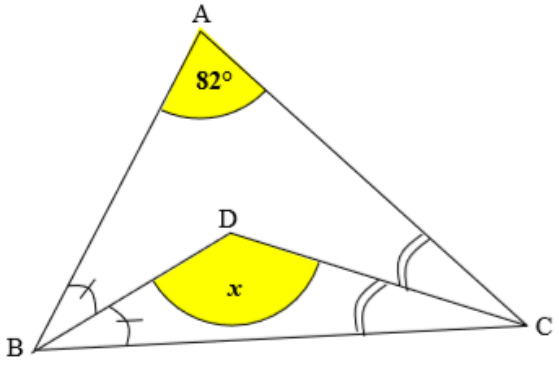
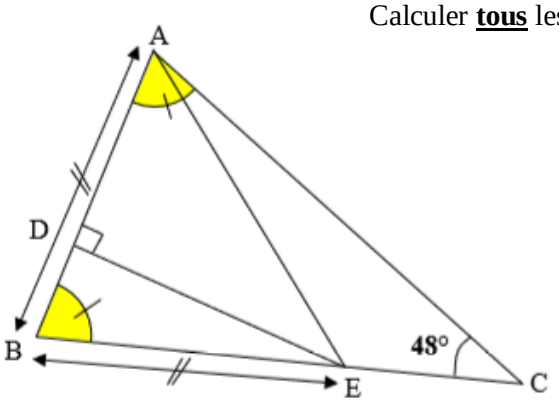
Calculer **tous** les angles de la figure en mettant brièvement la règle utilisée.